Přijímací řízení ak. r. 2010/11
Kompletní znění testových otázek - makroekonomie

Správná odpověď je označena tučně.

1. Jestliže centrální banka nakoupí na otevřeném trhu státní cenné papíry, způsobí tím:
   a) zvýšení bankovních rezerv a tím zvýšení monetární báze
   b) zvýšení bankovních rezerv a tím snížení monetární báze
   c) snížení bankovních rezerv a tím snížení monetární báze
   d) snížení bankovních rezerv a tím zvýšení monetární báze

2. Opakovanými deficity státního rozpočtu vzniká:
   a) deficit obchodní bilance
   b) veřejný dluh
   c) hrubý dluh
   d) státní dluh

3. Autonomní výdaje jsou výdaje nezávislé na:
   a) úrokové sazbě
   b) cenové hladině
   c) devizovém kurzu
   d) **reálném důchodu**

4. Je-li na trhu práce reálná mzda vyšší než rovnovážná, znamená to, že:
   a) poptávané množství práce je vyšší než nabízené
   b) nabízené množství práce je nižší než poptávané
   c) **nabízené množství práce je vyšší než poptávané**
   d) neplatí žádná z uvedených možností

5. Hrubé mzdy jsou součástí hrubého domácího produktu (GDP), pokud ho měříme metodou:
   a) **důchodovou**
   b) výdajovou
   c) odvětvovou
   d) výrobkovou

6. Pojmem deflace rozumíme:
   a) snižování tempa růstu cenové hladiny
   b) zvyšování tempa růstu cenové hladiny
   c) trvalý růst cenové hladiny
   d) **trvalý pokles cenové hladiny**

7. K přímým nástrojům monetární politiky nepatří:
   a) pravidla likvidity
   b) diskontní nástroje
   c) úvěrové limity
   d) úrokové limity

8. Růst sazby důchodové daně v modelu 45° způsobí:
   a) zvýšení sklonu křivky poptávky
   b) snížení sklonu křivky poptávky
   c) rovnoměrný posun křivky poptávky vzhůru
   d) rovnoměrný posun křivky poptávky dolů

9. Fáze ekonomického cyklu jsou:
   a) expanze, vrchol, kontrakce, dno
   b) vrchol, konjunktura, recese, dno
   c) vrchol, deflace, dno, stagflace
   d) vrchol, recese, dno, expanze

10. Předpokládejte, že ekonomika se nachází v inflační mezeře. Cílem vlády bude dostat ekonomiku do stavu dlouhodobé rovnováhy. Může tak učinit prostřednictvím:
   a) fiskální expanze způsobené zvýšením daní
   b) fiskální expanze způsobené zvýšením vládních výdajů
   c) fiskální restrikce způsobené snížením vládních výdajů
   d) fiskální restrikce způsobené snížením daní

11. Předpokládejte, že ekonomika se nachází v deflační mezeře. Centrální banka pomocí svých nástrojů může ovlivnit vývoj v ekonomice tak, aby se ekonomika dostala do stavu dlouhodobé rovnováhy. Může tak učinit prostřednictvím:
   a) monetární restrikce způsobené zvýšením lombardní sazby
   b) monetární expanze způsobené zvýšením lombardní sazby
   c) monetární restrikce způsobené snížením povinných minimálních rezerv
   d) monetární expanze způsobené snížením povinných minimálních rezerv

12. Hrubý národní produkt představuje:
   b) hodnotu všech statků a služeb vyrobených v ekonomice během daného roku
   c) hodnotu všech statků a služeb vyprodukovaných výrobními faktory ve vlastnictví obyvatel dané země během daného roku
   d) peněžní míru hodnoty statků a služeb, které národ získává ekonomickou činností
   e) žádná odpověď není správná

13. V nezaměstnanosti můžeme rozlišit 3 složky:
   a) potenciální, aktuální, mezní
   b) strukturální, cyklickou, frikční
   c) nominální, reálnou, potenciální
   d) očekávanou, neočekávanou, nominální

14. Čistý export je kladný, když:
   a) vývoz statků a služeb je v národní ekonomice větší než dovozy
   b) domácí amortizace je vyšší než hrubé soukromé zahraniční investice
   c) ceny dovozů rostou rychleji než ceny vývozů
   d) dovozy statků a služeb do národní ekonomiky jsou vyšší než vývozy

15. Keynesovské pojetí trhu práce vychází z předpokladu:
   a) nepružných mezd a neexistence nedobrovolné nezaměstnanosti
   b) nepružných mezd a předpokládá existenci nedobrovolné nezaměstnanosti
   c) pružných mezd a neexistence nedobrovolné nezaměstnanosti
   d) pružných mezd a předpokládá existenci nedobrovolné nezaměstnanosti

16. Investiční multiplikátor vyjadřuje závislost mezi přírůstkem:
   a) investic a úspor
   b) investic a produkce
   c) produkce a investic
   d) úspor a investic

17. Mezní sklon ke spotřebě vyjadřuje, jak se změní:
   a) úspory při změně reálného důchodu o jednotku
   b) spotřeba při změně reálného důchodu o jednotku
   c) spotřeba při změně úrokové míry o jednotku
   d) úspory při změně osobního důchodu

18. Pokud je skutečný produkt menší než potenciální, označujeme tento stav jako:
   a) inflační mezeru
   b) recesní mezeru
   c) produktový diferenciál
   d) nominální produkt

19. Phillipsova křivka v krátkém období vyjadřuje:
   a) přímo úměrný vztah mezi mírou inflace a mírou nezaměstnanosti
   b) přímo úměrný vztah mezi mírou inflace a ekonomickým růstem
   c) nepřímo úměrný vztah mezi mírou inflace a mírou nezaměstnanosti
   d) nepřímo úměrný vztah mezi mírou inflace a ekonomickým růstem

20. Nabídka na devizovém trhu vyjadřuje:
   a) přímo úměrný vztah mezi množstvím dané měny a jeho cenou
   b) přímo úměrný vztah mezi množstvím dané měny a cenovou hladinou
   c) nepřímo úměrný vztah mezi množstvím dané měny a jeho cenou
   d) nepřímo úměrný vztah mezi množstvím dané měny a cenovou hladinou

21. Vyberte z nabízených grafů ten, který představuje krátkodobou rovnováhu na trhu peněz:

a)
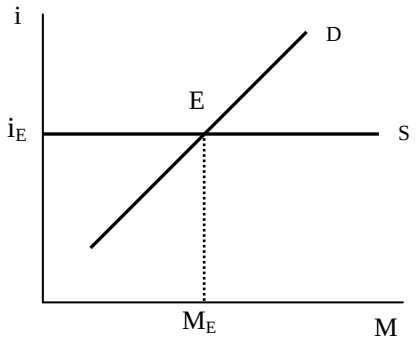

b)
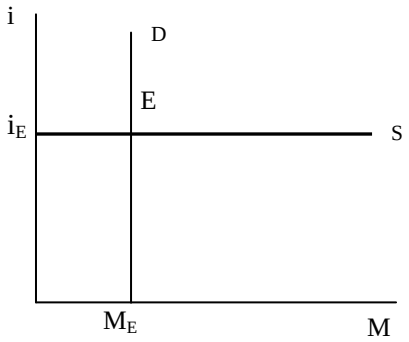

c)
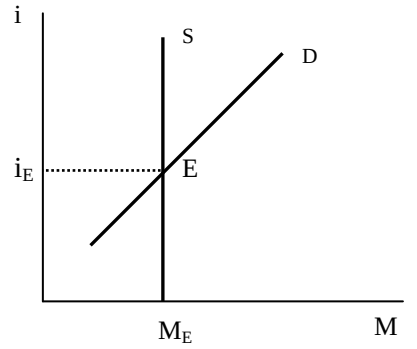

d)
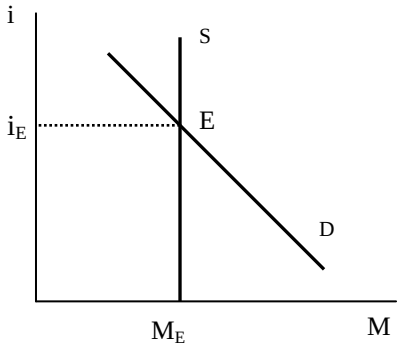

22. V grafu je zachycen:
   a) vliv růstu nabídky peněz v krátkém období
   b) vliv růstu nabídky peněz v dlouhém období
   c) vliv poklesu nabídky peněz v krátkém období
   d) vliv poklesu nabídky peněz v dlouhém období

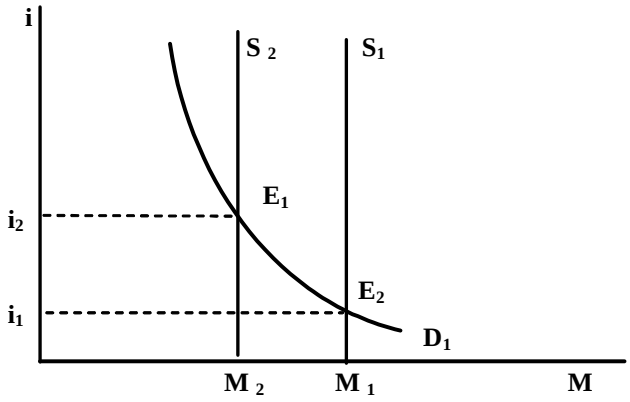

23. V grafu je zachycen:
   a) vliv poklesu investic
   b) vliv poklesu vládních výdajů
   c) vliv růstu vládních výdajů
   d) vliv růstu investic

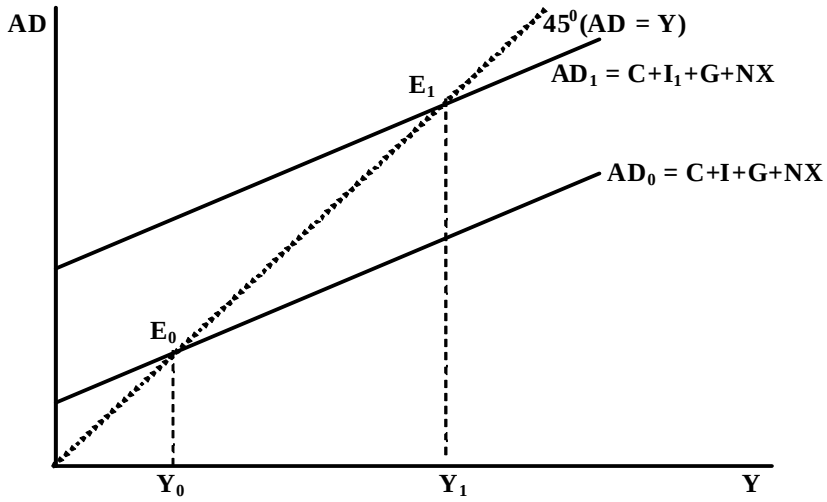

24. V grafu je zachycen:
   a) pozitivní poptávkový šok, pokud se ekonomika nachází v inflační mezeře
   b) negativní poptávkový šok, pokud se ekonomika nachází v inflační mezeře
   c) negativní poptávkový šok, pokud se ekonomika nachází v recesní mezeře
   d) pozitivní poptávkový šok, pokud se ekonomika nachází v recesní mezeře

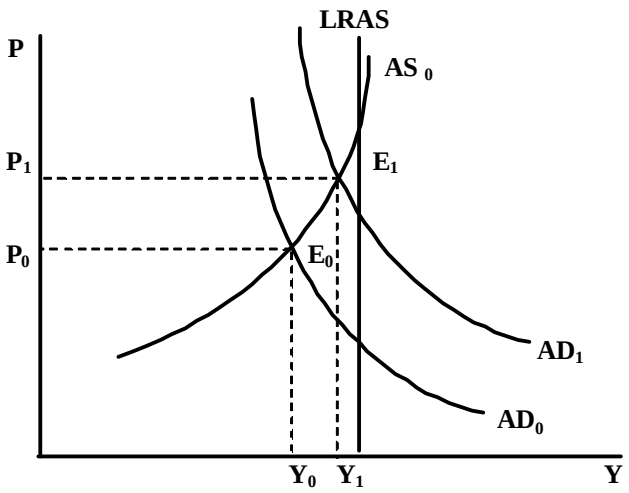
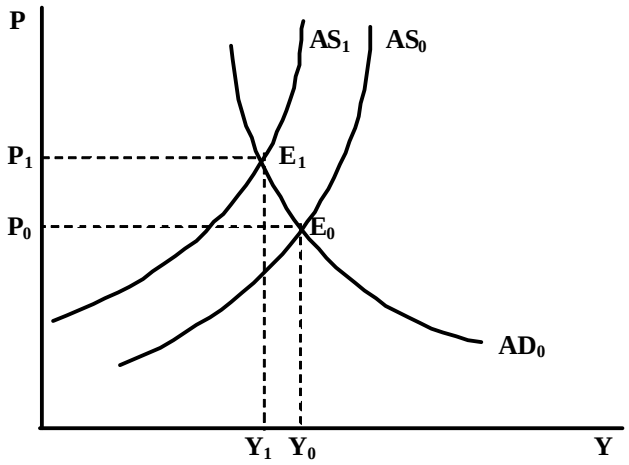
25. Následující graf představuje:
   a) nabídkovou inflaci
   b) poptávkovou inflaci
   c) snížení nákladů
   d) zvýšení cen práce